Datum: _____	Name: _____	**Mathematik** **Flächeninhalt**

Hier sind verschiedene Häuser als Skizze gezeichnet.
Trage die Seitenlängen (oder Längen und Breiten) ein und berechne den Flächeninhalt.

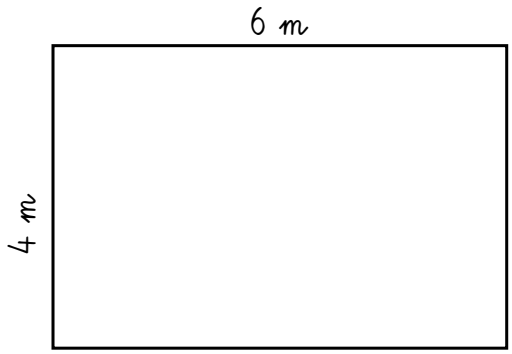

l =
b =
A =

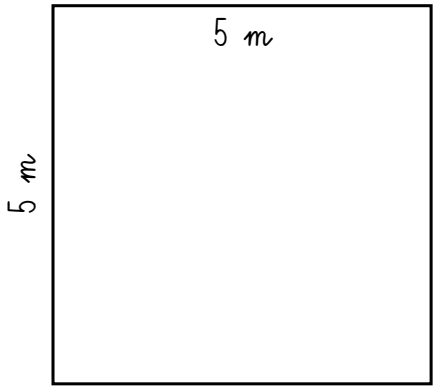

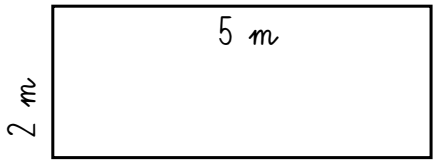

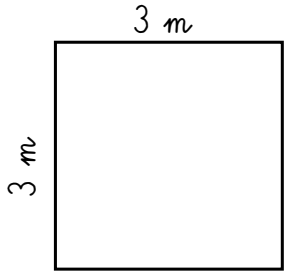

BildungsMücke